* Foundation on or near a slope: وجود أي فاونديشن ع سلوب، بقل الكتاب اللي بدرسها دد افترض إنه الفاونديشن (Strip) «

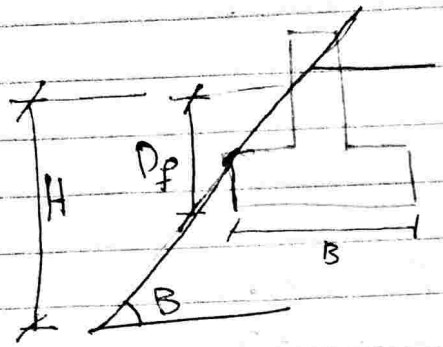

strip footing on face of slope

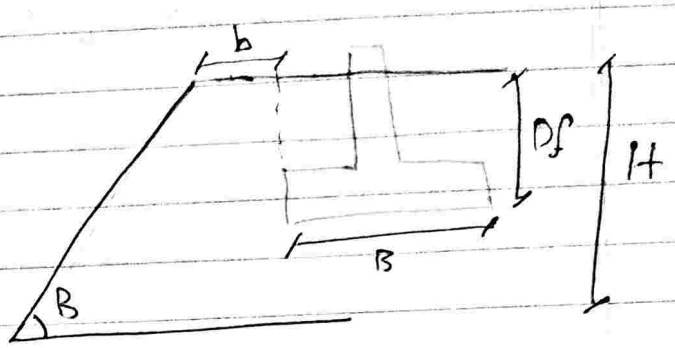

strip on slobe

- According to Meyerhof:

$$q_{ult}(strip) = c N_{cq} + \frac{1}{2} B \gamma N_{\gamma q} \quad (\text{for } \phi, c \text{ soil})$$

$$q_{ult}(strip) = c N_{cq} \quad (\phi = 0) \Rightarrow \text{clay}$$

$$q_{ult}(strip) = \frac{1}{2} B \gamma N_{\gamma q} \quad (C = 0) \Rightarrow \text{Sand}$$

c, ϕ soil ⇒ هي السويل اللي فيها ϕ و c

$[N_{cq}, N_{\gamma q}]$ ↑ Bearing capacity factors of footing on slops: ↓ fig 9.24

1. [--- dotted, curves are for $D_f/B = 1$
   — continos, curves are for $D_f/B = 0$ ← قريبة من الأرض.

2. calculate stability factor: $N_s = \frac{\gamma H}{c}$
   - If $B < H$ use $N_s = 0$ to obtain N_{cq}
     Inter polate for $0 < D/B < 1$
   - If $B \geq H$ use the calculated N_s to obtain N_{cq}, Interpolate for $0 < D/B < 1$, $0 < N_s < 1$

• خطوات قراءة الرسم :-

① تحديد موقع الفاونديشن إذا كانت على السطح أو عمق واحد منه، وكذلك الدرجة المناسبة ودي بتبقى كل واحدة فيها كام فاونديشن >>

② حسب قيمة C ، بنحدد النوع المناسب.

في حال كانه عنا ϕ و C بنستخدم ال two fig.s .

Graph
- on the Top
  - Cohesive Soil → معناها C لها
  - cohesionless Soil → معناها C=0
- on the face
  - cohesive Soil
  - cohesionless Soil

③ حسب D_f/B بنختار إذا الخط متقطع أو لا.

④ حسب قيمة N_s ، بنحدد أنه كيرف بالربط بنستخدمه.

⑤ حسب زاوية الميل بنحدد قيمة N_cq .

• في حال ما كان الكيرف بعض النقطة ، بقدر أعمل للكيرف (extrapolating)

هاي في حالة اللي بتقرأ الفاونديشن على واحد بتكون السطح

cohesive Soil

← نفس الحالة اللي فوق بس هون المحور الأفقي بكون اسمه السطح الطرف الفاونديشن

في حال كانت N_s=0 ← بنستخدم ع المحور الأفقي = b/B

N_s>0 ← بنستخدم ع المحور الأفقي = b/H

واللي بحلينا نحدد أنه كيرف نستخدم فيه ميل السطح ← إذا مش موجود بنعمل Interpolation.

cohesionless Soil

اللي بحلينا نحدد أنه كيرف نستخدم فيه ال ϕ : angle of Internal friction

$\Rightarrow q_{ult}$ (finite footing) on slope $= q_{ult}$ (strip) $\left[\frac{q_{ult}(\text{finite on level ground})}{q_{ult}(\text{strip on level ground})}\right]$

(Rectangle, Square, Circle)

• Example:

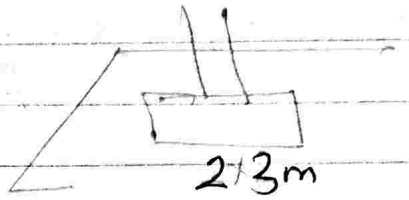

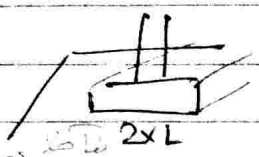

strip footing ①
With B=2

$q_{ult} = cN_{cq} + \frac{1}{2} B\gamma N_{\gamma q}$

on level ground ②
Terzaghi, or General Eq.

strip on level ground ③

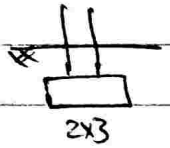

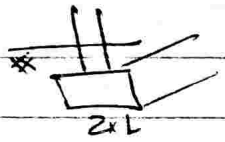

• Example:

$q_{ult} = cN_{cq} + \frac{1}{2} B\gamma N_{\gamma q}$

$q_{ult} = cN_{cq}$

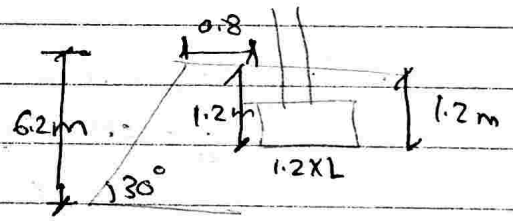

$B < H \rightarrow$ Use $N_s = 0$

$\frac{b}{B} = \frac{0.8}{1.2} = 0.67$

$N_{cq} = 6.3$ from fig 9.24.

$\gamma = 17.5$
$c = 50$
$\phi = 0$

$D_f/B = 0.5$

$1 = \gamma B$
$0 = \gamma B$,
Interpol.

• بنحسب H
• وبنحولها لـ one layer
• وبعدين بنحل عادي.

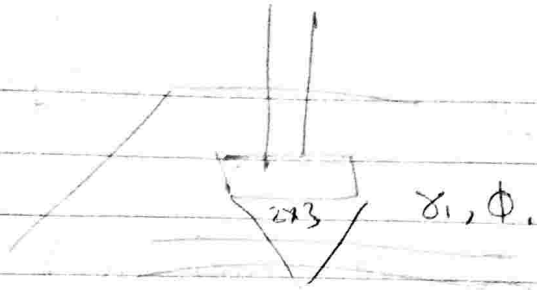

• في حال كانه في طبقتين برضه بنحط تأثيره.

What is Maximum b?

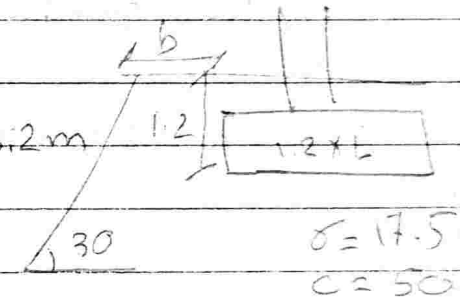

في الفاونديشن بنستخدم ال service load

ال F.S بعوض لغاية بالأرقام، كل ما كنت أدق كل ما قللت F.S

[1] First: calculat ~~the~~ q_{ult} to the strip foundation on the level ground?

. for clay soil:- $\phi = 0$, $N_c = 5.7$, $N_q = 1$, $N_\delta = 0$

$$q_{ult} = cN_c + \bar{q}N_q + \frac{1}{2}B\gamma N_\delta^{70}$$

$$= 50 \times 5.7 + 1.2 \times 17.5 \times 1 + 0$$

$$= 285 + 21$$

$$= 306 \ kN/m^2$$

⇒ So q_{ult} on the level ground = q_{ult} on the slope with (bmax)

• بنحسب H
• وبنحولها ل One layer
• وبعد بنه بنحل عادي .

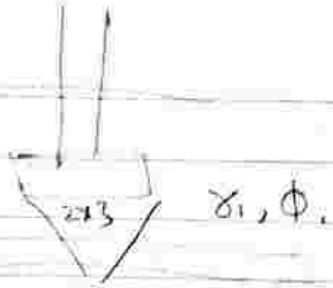

• في حال كانه في طبقتين برضه بنحط تأثيره .

حد كيف مضمون

What is maximum b?

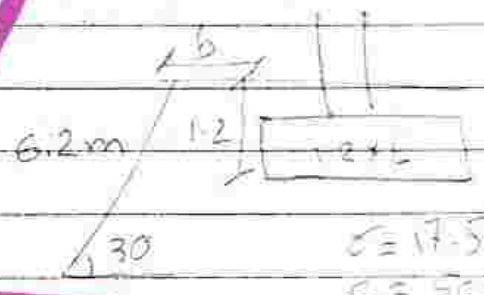

1 First : calculat qult to the strip foundation on the level ground?

. For clay soil :- $\phi = 0$, $N_c = 5.7$, $N_q = 1$, $N_\delta = 0$

$$q_{ult} = cN_c + \bar{q}N_q + \frac{1}{2}B\gamma N_\delta^{70}$$

$$= 50 \times 5.7 + 1.2 \times 17.5 \times 1 + 0$$

$$= 285 + 21$$

$$= 306 \ kN/m^2$$

⇒ So q_{ult} on the level ground = q_{ult} on the slope with (bmax)

في الفاونديشن بنستخدم ال service load

ال Fs بعوض لغلط بالارقام ركل ماكنت أدقة كل ماكلت Fs

$q_{ult} = C N_{cq}$ ⇒ to the Clay soil

$306 = 50\ N_{cq}$

$N_{cq} = 6.12$

From Fig 9.24 , cohesive soil

$B \leq H \Rightarrow N_s = 0$

$D_f/B \geq 1 \Rightarrow$ ---

$\beta = 30$

$N_{cq} = 6$

$\Rightarrow b/B \simeq 0.5$

$b/B \simeq 0.5$

$\frac{b}{1.2} = 0.5$

$b = 0.6$ m

Example:

Given $\frac{b}{B} = 1$

What is B?

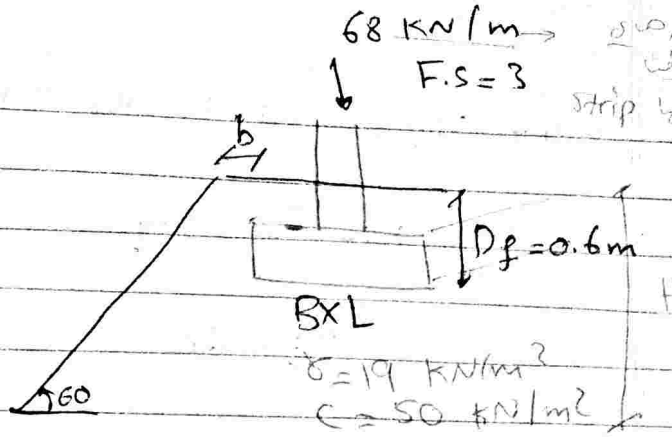

- This is a cohesive soil so we need to find N_{cq}.

⇒ assume ① $B < H \rightarrow N_s = 0$ ≫ ② $D_f/B = 0.5$

$D_f/B = 1 \rightarrow N_{cq} = 5.4$

or $\rightarrow N_{cq}$ ⇒ Interpolation $N_{cq} = 5.05$

$D_f/B = 0 \rightarrow N_{cq} = 4.7$

Cheack

$\Rightarrow q_{ult} = cN_{cq} = 5.05 \times 50 = 252.5\ KN/m^2$

$\Rightarrow Q = q_{all} \times A \Rightarrow 68 = \frac{252.5}{3}\ [B \times 1] \Rightarrow B = 0.8m$

(strip footing: $B \times 1$)

$B < H$ ok

$D_f/B = 0.6/0.8 = 0.75 \neq 0.5$

• Interpolation نرجع نعمل

$D_f/B = 1 \rightarrow N_{cq} = 5.4$

$D_f/B = 0.75 \rightarrow N_{cq} = ? \Longrightarrow 5.23$

$D_f/B = 0 \rightarrow N_{cq} = 4.7$

Cheack

$68 = \frac{261.5}{3}\ [B \times 1] \Rightarrow B = 0.78m \simeq 0.8m$

$B < H$ ok

$\frac{D_f}{B} = \frac{0.6}{0.78} = 0.77 \simeq 0.75$ ok

So $B = 0.8m$

$b = 0.8m$